2017年浙江省初中毕业升学考试（嘉兴卷）

社会·思品　试题卷

考生须知：

1. 全卷满分70分，考试时间100分钟。全卷采用开卷形式，但不能交流材料和讨论问题。

2.卷Ⅰ必考部分满分50分；卷Ⅱ选考部分满分20分，分AB二组，每组2题，考生在每组中任选1题作答。卷Ⅰ必考部分和卷Ⅱ选考部分的答案必须全部涂、写在答题纸相应的位置上。

卷Ⅰ（必考部分）

一、选择题（本题有26小题，每小题1分，共26分。请选出各题中一个最符合题意的正确选项，不选、多选、错选，均不给分）

1. 2016年12月12日，第一届__▲__表彰大会在京举行，会议倡导社会主义和谐新风尚。

A.全国文明家庭　　B.感动中国人物

C.全国劳动模范　　D.全国道德模范

2. 2017年4月1日，中共中央、国务院决定设立河北雄安新区，这对于调整优化京津冀城市布局和__▲__结构，培育创新驱动发展新引擎，具有重大意义。

A.产业　　B.人口　　C.空间　　D.社会

表1为我国北纬45°附近某山地东西侧两地区气候和地形资料。完成3～5题。

	甲	乙
1月均温（℃）	-15.5	-19.8
7月均温（℃）	23.5	19.6
年降水量（毫米）	446	356.5
平均海拔（米）	130-266	800-1100

表1

3. 该山地最有可能是

A.小兴安岭

B.长白山脉

C.大兴安岭

D.天山山脉

4. 甲、乙两地区气候特征差异表现为

A.甲地比乙地降水多，夏季气温低

B.乙地比甲地降水少，较为干旱

C.甲地比乙地海拔低，冬季气温低

D.乙地比甲地受夏季风影响明显

5. 从地形和气候看，乙地区经济发展的特点是

①草原广阔，放牧牛羊　　②开辟梯田，种植小麦

③封山育林，森林旅游　　④商品基地，扩种水稻

A.①②　　B.③④　　C.①③　　D.②④

图 1 为“丝绸之路经济带”上我国某省自然环境资料图。完成 6～7 题。

6. 该省的自然环境特征是

A.冬季均温皆低于 0℃

B.降水东北向西南递减

C.地势西北向东南倾斜

D.地处三大高原交界处

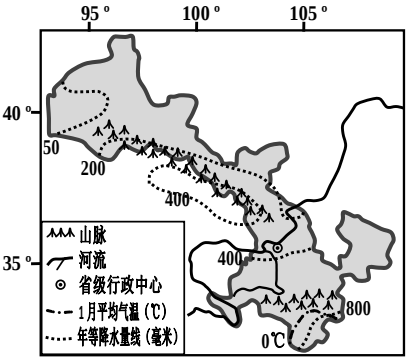

图 1

7. 该省发展经济可利用的当地资源是

A.黄河中游段的丰富水能

B.昆仑山区中的冰雪融水

C.西北部充足的太阳光照

D.东北部茂密的原始森林

8. 文艺复兴时期，巨人辈出、成就斐然、影响深远。属于这一时期的成就有

A.杰斐逊《独立宣言》　　B.莎士比亚《仲夏夜之梦》

C.伏尔泰《中国孤儿》　　D.牛顿《自然哲学的数学原理》

9. 15 世纪末，西欧航海家开始探索连通世界的新航路。新航路的开辟

①使世界开始走向整体　　②证明了地圆学说的正确性

③使美洲物种传播到世界　　④让地中海成为世界商业中心

A.①②③　　B.②③④　　C.①②④　　D.①③④

10. 北美独立战争与中国辛亥革命都是重大历史事件，两者都

A.推翻了国内的封建统治　　B.实现了国家主权独立

C.确立了君主立宪制政体　　D.传播了民主自由思想

11. 图 2 是某著作的局部，它反映了

A.西方宗教在中国的传播

B.中国文化对西方的影响

C.欧洲出现东学西渐现象

D.明末出现西学东渐现象

幾何原本第一卷之首 界說三十六 求作四
泰西 利瑪竇 口譯
吳淞 徐光啟 筆受
界說三十六則
凡定論先當分別解說論中所用名目故曰界說
凡歷法地理樂律算章技藝工巧諸事有度有數者皆
依賴十府中幾何府屬凡論幾何先從一點始自點引
之為線線展為面面積為體是名三度
第一界
點者無分

图 2

12. 胡适在《文学改良刍议》中说：“务去滥调套语、不讲对仗、不用典、不避俗字俗语”。由此可知，新文化运动

A.反对儒家学说　　B.主张白话写作

C.宣传民主科学　　D.提倡平等自由

13. “不承认国民党政府同各国建立的旧的外交关系，而要在新的基础上同各国另行建立新的关系”。这就是指

A.一边倒　　B.另起炉灶　　C.求同存异　　D.和平共处

14. 蒸汽机的改良解决了棉纺织业动力不恒定的问题，后来又引发了其他工业部门的技术变革。能佐证这一观点的史实为

A.蒸汽机的改良促使工人阶级的产生　　B.棉纺织业的发展改善了人们的生活

C.人们开始使用内燃机作为交通动力　　D.机器制造业引发了冶铁技术的革新

15. 嘉兴有处老建筑——三塔。它位于京杭古运河畔，始建于贞观年间，1971 年被夷为平地，1999 年在原址按原貌重建。三塔可能见证了

①隋朝大运河的开凿　　②唐玄宗开元盛世的开创

③“一五”计划的实施　　④十一届三中全会的召开

A.①②　　B.③④　　C.②③　　D.①④

16. 嘉兴有条老马路——三塔路。该路人车混行，每年银杏叶黄游客前来观赏之际，交通拥堵更甚，2017 年 2 月三塔路栈道及配套设施工程启动。此工程的实施能

①减轻这一路段交通压力　　②减缓嘉兴人口增长速度

③提升嘉兴市民文明素质　　④改善附近居民生活环境

A.①②　　B.①④　　C.②③　　D.③④

17. 嘉兴有家老字号——金三塔。自 1926 年始，经几代嘉兴丝绸人不懈努力、艰辛探索，“金三塔”成为浙江省知名品牌。可见，嘉兴丝绸人的优秀品质是

A.敬业乐群、公而忘私　　B.厚德载物、道济天下

C.鞠躬尽瘁、死而后已　　D.自强不息、艰苦奋斗

18. 英国哲学家霍布斯说：“人生来就是平等的，自然在身体和精神两个方面平等地创造了人。”这里的“平等”主要是指

A.人格平等　　B.法律平等

C.经济平等　　D.政治平等

图 3

19. 图 3 漫画中的时髦女士应该要

A.敢于直面他人责难

B.勤于履行工作职责

C.勇于维护个人安全

D.善于反省自己言行

20. 据报道，浙江省未成年人犯罪人数从 2014 年的 10142 人下降到 2016 年的 6849 人，降幅达 32.4%。这表明未成年人

①法律意识得到增强，学会了依法自律

②知识学习受到重视，提高了考试成绩

③道德修养获得提升，抵制了不良行为

④义务意识得以提高，遵守了劳动纪律

A.①②　　B.①③　　C.②④　　D.③④

21. 小李在学校文艺节上用相机记录活动盛况。小李对相机可能行使了

①占有权　　②使用权　　③处分权　　④收益权

A.①②　　B.③④　　C.①③　　D.②④

22. 嘉兴市举办“寒窗学子圆梦行动”助学仪式，资助对象为具有嘉兴市本级户籍、就读于普通高中、高校的生活困难家庭学生。这一助学行动

A.保障了受资助学生的受教育权　　B.体现了嘉兴市政府重视义务教育

C.表明了教育是社会进步的基石　　D.说明了受资助是学生成长的前提

“绿色司法”正成为浙江司法工作中的新理念、新常态。完成 23～24 题。

23. 浙江省检察机关践行“绿色司法”理念，联合“关工委”以最大限度教育挽救涉罪未成年人、保护未成年被害人。这体现了对未成年人的

①家庭保护　　②学校保护　　③社会保护　　④司法保护

A.①②　　B.①④　　C.②③　　D.③④

24. 护航非公有制经济正成为浙江司法工作新常态。这是因为非公有制经济

A.能加快生产力发展　　B.市场地位特殊需要保护

C.力量弱小需要引导　　D.是社会主义经济的组成部分

25. 去年，H 省一市长候选人在公示期间被网友举报年龄造假，经查证属实。网友在行使

A.申诉权　　B.知情权　　C.监督权　　D.选举权

26. 2017 年 5 月，第三期少数民族全国人大代表学习班的学员在杭州进行了理论学习和考察“取经”。这

A.能够完善民族区域自治制度　　B.有利于维护民族团结和共同繁荣

C.可以完善人民代表大会制度　　D.有助于消除差距以实现共同富裕

二、非选择题Ⅰ（本题有 2 小题，共 24 分）

27.（12 分）在实践中前行，在反思中创新。阅读材料，回答问题。

材料一：为了总结大革命失败的教训，中共中央在湖北汉口召开紧急会议。会后，毛泽东等人发动群众，进行了武装暴动。在遭受较大损失后，毛泽东指着地图说，“我们要到这眉毛画得最浓的地方去当山大王”。

——摘编自胡绳《中国共产党的七十年》等

（1）指出材料一中紧急会议上确定的方针，并说明武装暴动受挫后毛泽东所作出的战略转变。（3 分）

材料二：1927 年 10 月，毛泽东率领工农革命军到达井冈山，建立第一个革命根据地。

为了突破军阀的经济封锁，发展壮大根据地，坚持革命道路，共产党发动群众打土豪分田地。针对大量青年男子参加红军或外出谋生等现状，苏维埃政府领导和组织农民建立了劳动互助社、耕田队等。

——摘编自杨河主编《中国共产党革命精神史读本》等

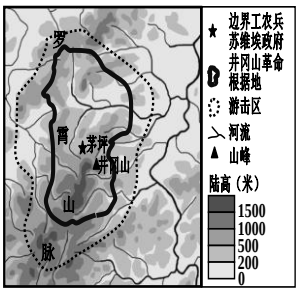

图 4 井冈山根据地示意图

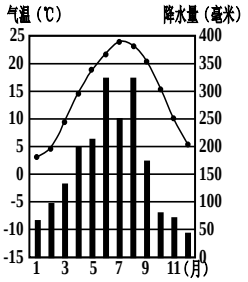

图 5 井冈山市气候资料

（2）根据材料二分析井冈山根据地为了坚持革命道路而开展粮食生产的自然和人文环境。（5 分）

材料三：1928 年起，毛泽东先后写下了许多著作，其中指出“马克思主义书本上并没有讲到中国湖南、湖北，它讲的只是基本原理”，“共产党的任务……不是先占城市后取乡村，而是走相反的道路”，逐步形成了中国革命新道路的理论。

——摘编自石崇科《毛泽东选集》（第二版）等

（3）综合三则材料，分析这条新道路是如何开辟的？并指出开辟的目的。（4 分）

28.（12 分）互联网是人们参与社会公共生活的有效载体。阅读材料，回答问题。

材料一：某班级建立 QQ 群，通过“群公告”公布“一周班情”。为同学们了解班情、讨论问题、建言献策提供了人人参与、畅所欲言的平台，促进了班级良性发展。

（1）联系材料一，指出 QQ 群的建立对学生参与班级管理的积极影响。（2 分）

材料二：2017 年 3 月 29 日，浙江省政府正式批复嘉兴设立“浙江省全面接轨上海示范区”，一时成为广大市民“网上议政”的热点话题。在一片点赞声中，也出现了吐槽、谩骂等不和谐声音，带来了一定的负面影响。

（2）结合材料二，运用“法律教育”的相关知识，说明公民应如何正确地行使“网上议政”的权利。（4 分）

（3）有人说，我国城市网络普及率是农村的 740 倍，不少农村家庭买不起电脑，所以，公平地行使“网上议政”的权利是不可能的。请运用公平正义的相关知识，就公平地行使“网上议政”的权利，谈谈你的认识。（6 分）

卷Ⅱ（选考部分）

三、非选择题Ⅱ（本题有 4 小题，分 AB 二组，每组 2 小题，考生在每组中任选 1 小题作答。每小题 10 分，共 20 分）

A 组

29.（10 分）欧洲 S 国景色优美，经济发达。阅读材料，回答问题。

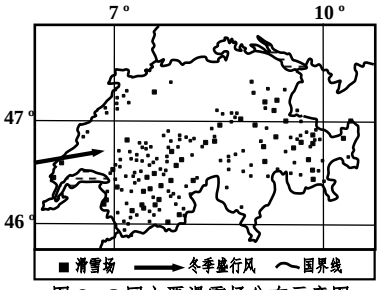

图 6　S 国主要滑雪场分布示意图

S 国“名片”

面积：4.1284 万平方公里。

人口：约 829 万人，近 10 年增加约 86 万。

地形：山地和高原为主，平均海拔约 1350 米。

资源：矿产资源匮乏，旅游资源丰富。

交通：公路四通八达，铁路密度大，航空发达。

其它：16 世纪中叶出现钟表制造业，已闻名世界，目前出口额约占国际市场销售额的 40%。重视职业技能培养，不断引进优秀钟表匠。

（1）冬季是滑雪旅游热季。说出该国主要滑雪场的分布特点，并从地形角度分析冬季多降雪的原因。（提示：降雪需“气温低于 0℃，有充足水汽”条件）（4 分）

（2）依据材料概述该国进一步发展钟表制造业的有利条件。（4 分）

（3）根据材料指出该国在经济发展中遇到的主要问题。（2 分）

30.（10 分）政治制度的创新是历史演进的一种常态。阅读材料，回答问题。

材料一：秦统治者把“帝”这个头衔作为自己的专属称呼，皇帝之下是三公，三公之下有九卿，“天下事无大小皆决于上”。全国分为三十六郡，郡下辖若干县，县按大小设县令或县长。

——摘编自樊树志《国史概要》等

（1）根据材料一，指出秦统治者在政治体制上的创新举措。（2 分）

材料二：公元前230年到公元前221年，秦陆续灭了六国，采用法家为主、兼蓄并用其他学派思想的做法，追求“事在四方，要在中央。圣人执要，四方来效”的格局。

——摘编自韦政通《中国思想史》等

（2）概括材料二中秦统治者创新制度所具有的历史条件。（4分）

材料三：秦朝作为中华帝国的开端，确立君、臣、民三层一元的政治结构，君主与官僚构成统治阶级。他们对千万小民的控制和支配，是其最突出特点。秦汉政治体制规范了最基本的特征、倾向。隋和唐初的制度，是在总结前代制度的基础上、适应新的时代特点而形成的三省制。元由三省简化为一省制，明制远追唐宋承元制.....

——摘编自吴宗国《中国古代官僚政治制度研究》

（3）依据材料三，分析秦统治者所创制度的影响。（4分）

B组

31.（10分）“上天入地”改旧貌，人文关怀展新颜。阅读材料，回答问题。

材料一：2017年4月16日，位于嘉兴市区中山路与越秀路交汇处的首座人行过街天桥开通使用，结束了该路段交通拥挤的状况。天桥四角还人性化地设置了垂直升降电梯，以方便老年人、残疾人等特殊人群乘坐。

材料二：在“海绵城市”建设中，科学技术散发着浓浓的人文情怀。通过源头低影响开发技术、盾构雨水干管技术等，解决老旧城区的内涝问题；通过城市道路低影响开发雨水系统技术等，解决了城市道路积水严重的问题，保证了雨天道路的通畅与安全。

（1）材料一中天桥的开通使用有利于保障嘉兴市民的哪一人身权利。（2分）

（2）从科教兴国的角度，概述材料二中科学技术是如何带来人文关怀的。（6分）

（3）概括两则材料中所蕴含的社会主义核心价值观内容。（2分）

32.（10分）行为的选择考量着良心与责任。阅读材料，回答问题。

材料一：杜某通过建立人体器官交流平台给患者和供体牵线搭桥，从中赚取中介费。J市某区人民法院审理认为杜某为牟取非法利益，贩卖人体器官，其行为已构成组织出卖人体器官罪，依据刑法判处其有期徒刑一年零六个月，并处罚金5000元。

材料二：在嘉兴工作的四川籍21岁女孩小刘，遭遇车祸救治无效。其父决定捐献出女儿的心脏、肝脏、肾脏和眼角膜。通过直升机与民航“空空联运”的“生命接力”，这些器官被送往北京阜外医院和浙医二院，延续了3个人的生命，2个人重见光明。

（1）运用“法律作用”知识，说明法院对杜某的判决所体现的道理。（4分）

（2）分析材料二中的行为是如何诠释“生命的价值”的。（4分）

（3）从责任角度指出刘父和杜某的行为给我们的启示。（2分）